平成25年度

藤蔭高等学校　前期入学試験問題

社　　会　（ 45分 ）

試験開始の合図があるまで，この「問題」を開かず，下記の注意事項をよく読んでください。

注　意　事　項

1．試験中は，わき見をしたり，勝手に話をしてはいけません。道具の貸し借りもしてはいけません。不正行為のないように注意してください。

2．試験中の途中退場はできません。

3．試験中，気分が悪くなった人は，黙って手をあげてください。

4．問題用紙と解答用紙は別々の用紙です。答は解答用紙に書いてください。解答用紙には受験番号と氏名をはっきり書いてください。

5．問題に脱落や印刷の不鮮明な部分などがあったら，黙って手をあげてください。

6．試験が終ったら，解答用紙は裏にして机の上に置いてください。問題用紙は持ち帰ってください。

受　験　番　号	氏　　名

【１】次の文を読んで，各問いに答えなさい。

昨年の７～８月に17日間にわたり①イギリスのロンドンで夏季オリンピックが開かれました。日本にとってこのロンドン大会は，初参加からちょうど100年目の大会でした。日本はこの大会で，金７，銀14，銅17の計38個のメダルを獲得し，８年前の②アテネ大会の37個を上回る史上最多の獲得数となり，国別では③アメリカの104個，④中国の87個，ロシアの82個，イギリスの65個，⑤ドイツの44個につぐ多さでした。オリンピックは４年に１回開催されるスポーツの祭典です。次回の夏季オリンピックは2016年に⑥ブラジルのリオデジャネイロで開かれますが，南アメリカで開かれる初めての大会となります。なお，2020年の開催地はまだ決まっていませんが，⑦東京が⑧1964年以来２度目のオリンピック開催を目指し候補地に名乗りをあげています。

問１　下線部①に関して，ロンドンを通る本初子午線は経度0度，日本の明石市を通る標準子午線は東経135度である。ロンドンのあるイギリスと日本の時差は何時間か，また，明石市はどの都道府県にあるか，答えなさい。

雨温図

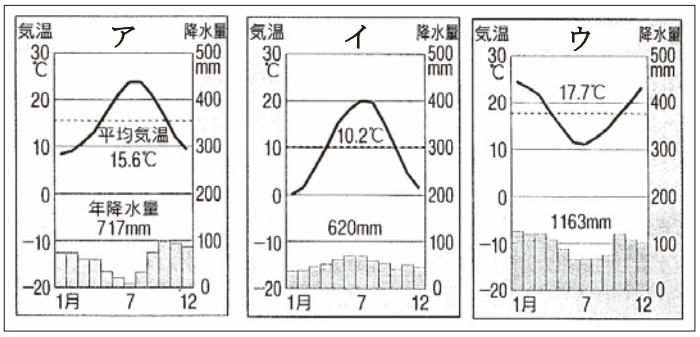

問２　下線部②に関して，アテネは温帯のなかでも地中海性気候に属する。地中海性気候の特徴を示すものを**雨温図**中の**ア**～**ウ**から１つ選び，記号で答えなさい。

問３　下線部③に関して，古くから工業がさかんな都市がある**図Ⅰ**中の**A**の地域の湖をまとめて何というか，漢字で書きなさい。

図Ⅰ

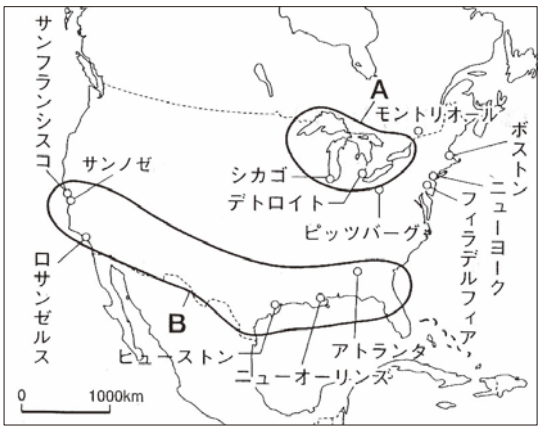

問４　**図Ⅰ**中の**B**で示された，南部の新しい工業地域を何というか，答えなさい。

問５　**図Ⅰ**中のサンノゼ近郊のシリコンバレーで発達しているハイテク（先端技術）産業は何か，ア～エから１つ選び，記号で答えなさい。

ア　コンピューター　　イ　ニューセラミックス
ウ　ロケット　　エ　ロボット

図Ⅱ

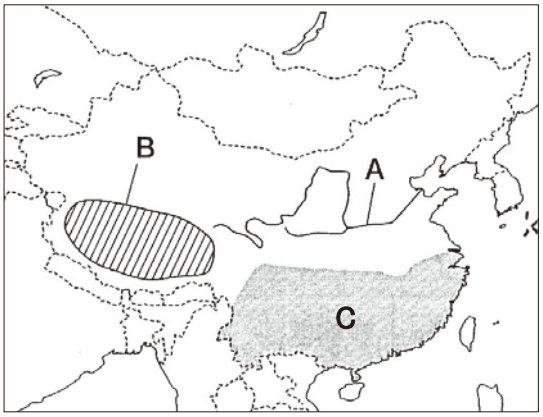

問６　下線部④に関して，**図Ⅱ**中の**A**の河川名と**B**の高原名を答えなさい。なお，**A**は漢字で書きなさい。

問７　**図Ⅱ**中の**A**の流域と，**B**および**C**の地域の農業区分の組み合わせとして正しいものをア～エから１つ選び，記号で答えなさい。

ア	**A**－とうもろこし	**B**－非農業地	**C**－米
イ	**A**－とうもろこし	**B**－牧畜	**C**－こうりゃん
ウ	**A**－小麦	**B**－牧畜	**C**－米
エ	**A**－小麦	**B**－非農業地	**C**－こうりゃん

問８　**図Ⅱ**中の**B**などに住む少数民族には強制がない，人口増加をおさえるための中国の政策を何というか，答えなさい。

問９　下線部⑤に関して，次の文の(　　)にあてはまる語句を答えなさい。

ヨーロッパでは，ドイツをふくめた多くの国々が(　ア　)という組織をつくり，政治や経済の面で結びつきを強めている。(　ア　)内では貿易にかかる(　イ　)が廃止されたり，共通通貨の(　ウ　)が発行されるなど，経済的には一つの国のようなしくみができあがりつつある。

問 10　下線部⑥に関して，**図Ⅲ**からはどのようなことがいえるか，正しくないものをア～エから１つ選び，記号で答えなさい。

図Ⅲ

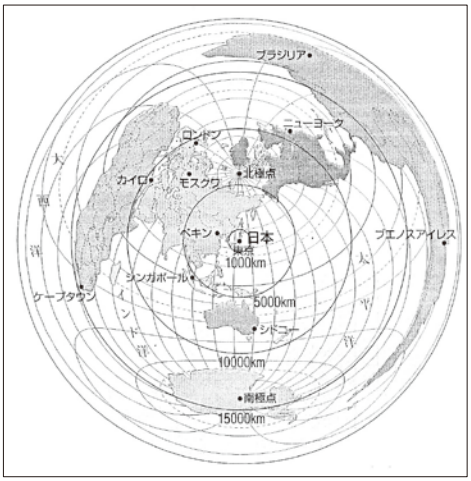

ア　東京からブラジルの首都ブラジリアまでの直線距離は，南極点までのそれより遠い。
イ　東京からブラジルの首都ブラジリアまでの直線距離は，南アフリカのケープタウンまでのそれよりは近い。
ウ　東京から最短距離でブラジルの首都ブラジリアに行くには，北北東に行けばよい。
エ　ブラジルは日本から見てほぼ地球の裏側にあたる。

問 11　下線部⑦に関して，次の文の(　　)にあてはまる語句の組み合わせとして正しいものを(ⅰ)・(ⅱ)からそれぞれ１つずつ選び，記号で答えなさい。

東京都の産業は，(　a　)業，コンピューターなどの電子機器，衣服・服飾などが中心である。つまり，東京は(　b　)や流行の発信地であるばかりではなく，高い技術力や大消費地に関連した(　c　)型工業を展開しているといえる。 また，東京都には世界各国の(　d　)が数多くあり，(　e　)企業の進出もさかんである。東京は日本の企業だけでなく，(　e　)企業にとっても，(　f　)を集めたりするうえで重要な場所であり，日本だけではなく世界経済の中心的な都市のひとつになっている。

（ⅰ）ア　a－卸売・小売　b－文化　c－都市　　イ　a－出版，印刷　b－情報　c－都市
　　ウ　a－卸売・小売　b－情報　c－近郊　　エ　a－出版，印刷　b－文化　c－近郊

（ⅱ）ア　d－大使館　e－合弁　f－外国通貨　　イ　d－新聞社　e－合弁　f－経済情報
　　ウ　d－大使館　e－外国　f－経済情報　　エ　d－新聞社　e－外国　f－外国通貨

問 12　下線部⑧に関して，1964 年よりあとの出来事をア～エから１つ選び，記号で答えなさい。

ア　サンフランシスコ平和条約が締結される。　　イ　日米安全保障条約が締結される。
ウ　日中平和友好条約が締結される。　　エ　朝鮮戦争が始まる。

【２】次の略年表・資料を見て，各問いに答えなさい。

略年表

世紀	おもなできごと
8	律令国家が成立する
	Ａ 平城京に唐風の大寺院がつくられる
11	摂関政治が行われる
	Ｂ 阿弥陀堂がさかんにつくられる
12	武家政権が成立する
	Ｃ 宋から新しい建築様式が伝わる
	Ｄ 寺院の部屋の様式が武家の住居に取り入れられる
	Ｅ 天守閣がつくられるようになる
17	江戸幕府が成立する
	Ｆ 新しく城をつくることが禁止される
19	明治維新がはじまる
	Ｇ 学制が公布され，全国各地で小学校がつくられる
	Ｈ 欧化政策の一環で鹿鳴館が建設される
20	戦後の民主化へのあゆみがはじまる
	Ｉ 原爆ドームが世界遺産の一つとして登録される

資料１



慈照寺の東求堂同仁斎

資料２

一、諸国の城は、修理する場合であっても、必ず幕府にもうし出ること。まして新しい城をつくることは厳しく禁止する。
一、幕府の許可なしに、婚姻を結んではならない。
（部分要約）

資料３

第4条　すべて日本に対して輸出入する商品は別に定めるとおり，日本政府へ関税をおさめること。

第6条　日本人に対して法を犯したアメリカ人はアメリカ領事裁判所において取り調べのうえ，アメリカの法律によってばっすること。　（部分要約）

資料４

元始，女性は実に太陽であった。真正の人であった。今，女性は月である。（略）わたしたちはかくされてしまったわが太陽を今や取りもどさなくてはならない。　（部分要約）

問１　わが国の建築は，仏教とかかわりながら発達してきた。次の文は，略年表中Ａ～Ｆのどの時期の仏教の様子を述べたものか，最も適当なものを選び，記号で答えなさい。

極楽往生を願う浄土信仰がおこり，貴族や地方の人々にも広まった。

問２　下の建築物は，略年表中Ａ～Ｅのどの時期につくられたか，記号で答えなさい。

①

②

③

問３　略年表中Ｄに関して，**資料１**にみられる建築様式を何というか，答えなさい。

問４　**資料２**は，略年表中Ｆのころに幕府が定めた法律である。何という法律か，答えなさい。

問５　略年表中Ｇの頃のようすとして適当なものを，次のア～エから１つ選び，記号で答えなさい。

ア　発布後数年で小学校の就学率は90％を超えた。　イ　小学校でも授業料を徴収した。
ウ　国が学校の建築費を全額を負担した。　エ　小・中学校の9年間を義務教育とした。

問６　略年表中Ｈの頃，政府は，**資料３**の内容の改正を外交上の課題としていた。**資料３**の条文が含まれる条約を何というか，答えなさい。

問７　略年表中Ｉに関して，核兵器をめぐる現在の日本や世界のようすとして適切なものを，次のア～エから１つ選び，記号で答えなさい。

ア　日本は核兵器拡散防止条約を批准している。
イ　冷戦が続く中，世界では核実験が増加している。
ウ　日本は非核三原則を基本政策としている。
エ　アメリカとロシアの2カ国のみ核兵器を保有している。

問８　**資料４**は，「新しい女性」をめざし，設立された組織の宣言の一部である。この宣言文を書き，女性の解放を唱えた人物は誰か，答えなさい。

【３】右の略年表を見て，各問いに答えなさい。

略年表

1642年	（①）革命が起こる
1688年	②名誉革命が起こる
1775年	③アメリカ独立戦争始まる
1789年	④フランス革命が起こる
1840年	⑤アヘン戦争が起こる
1894年	⑥日清戦争が起こる
1914年	⑦第一次世界大戦が起こる

問１　略年表中の（①）にあてはまる語句はどれか。次のア～エから１つ選び，記号で答えなさい。

ア　ロシア　　イ　ピューリタン（清教徒）
ウ　辛亥　　エ　産業

問２　下線部②～④について，次の文Ａ～Ｃはそれぞれのできごとの時に発表された宣言の一部である。その組み合わせとして正しいものを，次のア～エから選び，記号で答えなさい。

Ａ　人は生まれながらに，自由で平等な権利を持つ。社会的な区別は，ただ公共の利益に関係のある場合にしか，設けられてはならない。
Ｂ　国王の権限によって，議会の同意なく，法律を停止することができると主張することは，違法である。
Ｃ　われわれは以下のことを真理であると信ずる。すべての人は平等につくられ，神によって，生まれながらの権利を与えられていること。その中には，生命，自由，幸福の追求がふくまれていること。

ア　②=Ａ　③=Ｂ　④=Ｃ　　イ　②=Ａ　③=Ｃ　④=Ｂ
ウ　②=Ｂ　③=Ａ　④=Ｃ　　エ　②=Ｂ　③=Ｃ　④=Ａ

問３　下線部③について，この戦争に勝利したアメリカは，民主的な憲法を定めたが，その柱にある三権分立を主張したフランスの思想家は誰か，答えなさい。

問４　下線部⑤の戦争と同じ時期に日本であったできごととして，正しいものはどれか，次のア～エから１つ選び，記号で答えなさい。

ア　天保の改革　イ　新井白石の政治　ウ　寛政の改革　エ　享保の改革

問５　下線部⑥の戦争の講和条約は，どこで結ばれたか，地名を答えなさい。

問６　下線部⑦について，これに関係するできごとのうち，誤っているものを次のア～エから１つ選び，記号で答えなさい。

ア　ロシアでは，ソビエトという代表会議が革命を起こし，革命政府はドイツと講和した。
イ　バルカン半島では，セルビア人青年がオーストリア皇太子夫妻を暗殺した。
ウ　ドイツは，対立していたソ連と条約を結び，ポーランドに侵攻した。
エ　日本は，山東半島などを占領し，中国政府に二十一カ条の要求をした。

【4】次の文は，先生とNさんとの会話です。これを読んで各問いに答えなさい。

Nさん：①株式の価格は②景気の変動とどのような関係がありますか。
先　生：景気がよくなると株式の価格が上がり，悪くなると株式の価格が下がる傾向があります。
Nさん：景気の調整は財政の役割の一つということですが，財政について教えてください。
先　生：③財政とは国や④地方公共団体の経済活動のことです。財政のあり方と社会の情勢とは密接な関連にあります。例えば，少子高齢化は，財政の上でも大きな課題です。
Nさん：⑤少子高齢化が進んだのはなぜですか。
先　生：平均寿命がのびたことと，出生率の低下が原因です。出生率を上げるには⑥女性差別をなくし，女性が働きやすい環境を整えていくことが必要だと思います。
Nさん：社会では，さまざまなことがらが関連しあっているということですね。広い視野に立って社会をみていこうと思います。

問１　下線部①に関して，株式会社についての説明としてあてはまらないものをア～エから１つ選び，記号で答えなさい。

ア　株式の発行によって得られた資金をもとに設立される。
イ　株主は株主総会に出席して経営方針や利潤の分配などに関する議決をする。
ウ　株主は利潤の一部を配当として受け取ったりする権利を持っている。
エ　公企業として，利潤の追求よりも公共の利益を優先した経営を行っている。

問２　下線部②に関して，下の図は景気変動の波を表している。Aの期間のような景気の上昇中の現象として適当なものをア～エから１つ選び，記号で答えなさい。

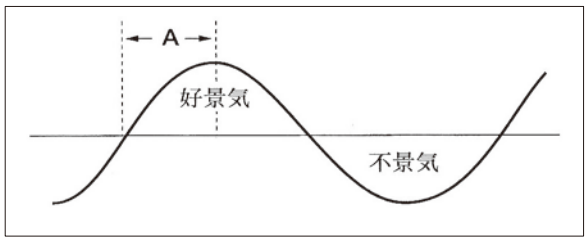

ア　企業の生産が減少する。
イ　賃金が下落する。
ウ　消費が低迷する。
エ　インフレーションが進む。

問３　下線部③に関して，わが国の財政に関して述べた文として正しいものをア～カの中から３つ選び，記号で答えなさい。

ア　国民は納税の義務を負うと，憲法で定められている。
イ　直接税よりも間接税の方が，国の歳入にしめる比率が高い。
ウ　すべての国民が，一律に３パーセントの消費税を納めている。
エ　私たちは，商品を購入したときに消費税を負担する。
オ　政府は，財政収入の不足を補うために，国民などからお金を借り入れている。
カ　国が財政活動を行うには，内閣による予算の議決を必要とする。

問４　下線部④に関して書かれた下の文章をみて各問いに答えなさい。

「地方自治はa(　　)の学校」といわれ，住民は，b首長や地方議会の議員を直接選んでいる。また，住民には，c首長の解職を求める権利などが認められている。一方，d地方財政は豊かではなく，e国は中央集権の性格を改め、地方公共団体に対し，行政・財政上の自治を大幅に認める法律を制定した。

（1）　下線部aの(　　)にあてはまる語句を漢字４字で書きなさい。

（2）　下線部ｂに関して，地方自治における首長と地方議会の権限としてあてはまらないものをア～エから１つ選び，記号で答えなさい。

ア　首長は，議会を解散できる。　　ウ　首長は，議決の再議を求めることができる。
イ　議会は，首長を指名できる。　　エ　議会は，首長の不信任決議ができる。

（3）　下線部ｃに関して，有権者が 21,000 人の町の場合、首長の解職請求に必要な署名数は最低何人か，ア～エから１つ選び，記号で答えなさい。

ア　450 人　　イ　900 人　　ウ　3,500 人　　エ　7,000 人

（4）　下線部ｄに関して，地方公共団体間の財政格差をならすために国から配分され，使い道を自主的に決められる補助金を何というか，ア～エから１つ選び，記号で答えなさい。

ア　地方債　　イ　地方税　　ウ　地方交付税交付金
エ　国庫支出金

（5）　下線部ｅは国と地方公共団体を対等に位置づけるものである。これを何というか。漢字４字で書きなさい。

資料

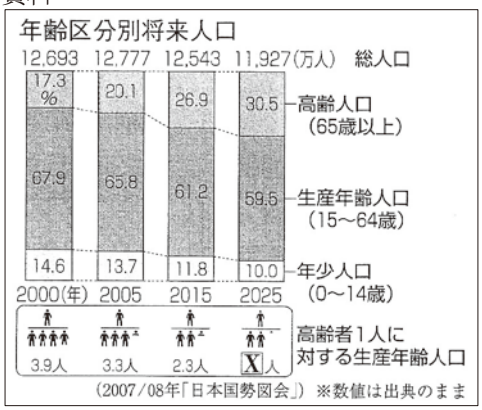

問５　下線部⑤に関して，右の資料中の$\boxed{X}$は何人になるか，小数第２位を四捨五入して答えなさい。

問６　下線部⑥に関して，次の文の(　　)にあてはまる語句を漢字４字で書きなさい。

女性差別をなくすために，1985 年に男女雇用機会均等法が，1999 年には男女共同(　　)基本法がそれぞれ制定され，女性が男性と対等に参加し活動できる社会をつくることが求められています。

【5】次の文は、AさんとBさんが「自由権と社会権」について話し合ったときの会話の一部です。これを読んで各問いに答えなさい。

Aさん：日本国憲法では，いろいろな自由が保障されているね。
Bさん：そうですね。精神の自由・①身体の自由・経済活動の自由が保障されています。経済活動の自由を調べたら，居住・移転の自由や，職業選択の自由がありました。財産を持つことも権利として保障されていました。
Aさん：人間らしく生きるために生活の基礎を保障する②社会権もあるね。
Bさん：社会権についても調べました。19世紀に自由権のもとで経済活動がさかんになり，その結果貧富の差が拡大したため登場したのが社会権だそうです。

問1　下線部①に関して述べた文として最も適当なものをア～エから1つ選び，記号で答えなさい。

ア　すべての人は，等しく，その能力に応じて教育を受ける機会を与えられる。
イ　すべての人は，自由に職業を選び，経済活動を営むことができる。
ウ　すべての人は，自由にものを考え，自分の意志を発表することができる。
エ　すべての人は，法律が定める手続きによらなければ刑罰を科せられない。

問2　下線部②に関して，憲法第25条の「健康で文化的な最低限度の生活を営む権利」は何と呼ばれているか，ア～エから1つ選び，記号で答えなさい。

ア　生活権　　イ　生存権　　ウ　請願権　　エ　請求権

問3　下線部②に関して，次の文のア～ウにあてはまる語句を答えなさい。

使用者に対して弱い立場にある労働者のために，（　ア　）権（労働三権）が保障されている。それは，労働者が団結して行動できるように労働組合をつくる（　イ　）権，労働組合が賃金その他の労働条件の改善を求めて使用者と交渉する（　ウ　）権，要求を実現するためのストライキなどの団体行動をする団体行動権の三つです。

平成25年度
前期入学試験

社会科解答用紙

【1】

問1		問2	問3	問4
時差　時間	都道府県名			

問5	問6		問7	問8
	河川名	高原名　高原		政策

問9			問10	問11
ア	イ	ウ		(i)

問11	問12
(ii)	

【2】

問1	問2			問3	問4
	①	②	③		

問5	問6	問7	問8
	条約		

【3】

問1	問2	問3	問4	問5	問6

【4】

問1	問2	問3			問4	
					(1)	(2)

問4			問5	問6
(3)	(4)	(5)	人	

【5】

問1	問2	問3		
		ア	イ	ウ

受験番号	氏　　名

合計点	