令和２年度

藤蔭高等学校　前期入学試験問題

社　　会　（ 50分 ）

試験開始の合図があるまで，この「問題」を開かず，下記の注意事項をよく読んでください。

注　意　事　項

１．試験中は，わき見をしたり，勝手に話をしてはいけません。道具の貸し借りもしてはいけません。不正行為のないように注意してください。

２．試験中の途中退室はできません。

３．試験中，気分が悪くなった人は，黙って手をあげてください。

４．問題用紙と解答用紙は別々の用紙です。答えは解答用紙に書いてください。解答用紙には受験番号と名前をはっきり書いてください。

５．問題に脱落や印刷の不鮮明な部分などがあったら，黙って手をあげてください。

６．試験が終ったら，解答用紙は裏にして机の上に置いてください。問題用紙は持ち帰ってください。

受　験　番　号	名　　前

【1】次の図及び写真を見て，各問いに答えなさい。

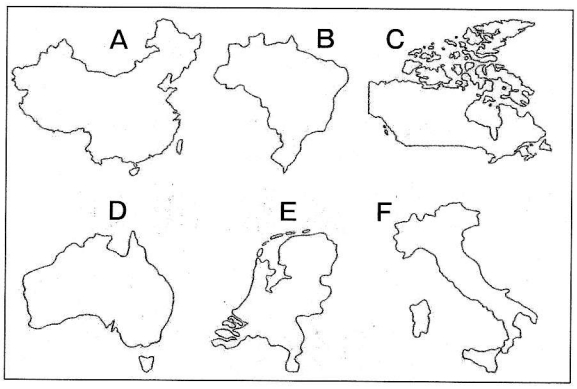

Ⅰ


Ⅱ

Ⅲ

Ⅳ

問1 図A～Dは，いずれも面積が広い国の世界6位までに入っている(縮尺は同じではない)。面積が大きい順に並べなさい。

問2 写真Ⅰについて，(1)・(2)の問いに答えなさい。

(1) この国の国旗はどこの国のものか，図A～Fから１つ選び，記号で答えなさい。

(2) (1)の国が属する州名を答えなさい。

問3 次の文は，図A～Fのいずれかの国を説明したものである。記号と国名をそれぞれ答えなさい。

二つの大洋に面する国で，大部分が冷帯，寒帯に属する。タイガと呼ばれる広大な森林が分布しており，木材やパルプが日本へ輸出されている。

問4 写真Ⅱ～Ⅳのような観光名所がみられる国を，A～Fから１つずつ選び，記号で答えなさい。

【2】地域調査に関する次の文を読み，各問いに答えなさい。

地域を調べるときは，あらかじめ調べる地域や調査項目を①国土地理院が発行する地形図などで下調べしておくことが重要である。その上で，現地で実際に観察・見学をしたり，統計資料などを活用することで，さらに地域の特徴が見いだせる。例えば，地図記号では畑作や工場であっても，②植えられている作物や作られている製品を調べて他の地域と比較することで，地域の特徴をより明らかにすることができる。

問1 地域について調べるとき，次のA～Dは，どのような手順で進めるとよいか，記号で並び替えなさい。

A 調査する　B 調査テーマを決める　C まとめて発表する　D 調査計画を作成する

問2 調査の方法について，(1)・(2)の問いに答えなさい。

(1) 新聞・雑誌・図書など参考資料となる文物・書物のことを何というか，答えなさい。

(2) インターネットを利用し，ホームページにアクセスする方法もある。その場合の注意点として述べた，次の文の(　　)に共通してあてはまる語句を答えなさい。

インターネットを使うと，最新の(　　)が家や学校に居ながら集めることができるが，(　　)が古かったり，間違ったりしている場合もあるので，注意する必要がある。

問3 発表のときの話し方でよくないものを，次のア～エから１つ選び，記号で答えなさい。

ア　はっきりゆっくり話す　　イ　話しかけるように話す

ウ　急いで話す　　エ　話の区切りに間をおく

問4 発表について，次のⅠ～Ⅲの内容を表すのに適したグラフを，右の**ア**～**ウ**から1つずつ選び，記号で答えなさい。

Ⅰ　ある国の人口の推移
Ⅱ　ある国と別の国のおもな農産物の生産量
Ⅲ　農産物の国別生産割合

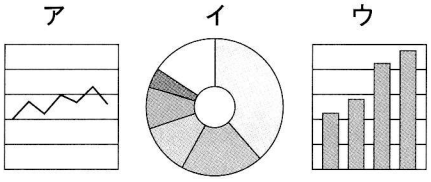

問5 下線部①について，2万5千分の1の地形図上の1cmは，実際には何mになるか，答えなさい。

問6 下線部②に関して，右の統計はある農産物の生産地の収穫量を表している。作物名を，次の**ア**～**エ**から1つ選び，記号で答えなさい。

茨　城	243,700
長　野	235,200
北海道	28,800
群　馬	27,900
栃　木	24,400

単位はトン
農林水産省「生産統計」から作成

ア　ほうれんそう　　**イ**　たまねぎ
ウ　じゃがいも　　**エ**　はくさい

問7 S君は地域を歩いて観察している途中，街の中心地の古くからの商店街がさびれてきていることに気がついた。それは，最近できたいくつかの大規模な商業施設と関連があると考えた。一般的に，このような大規模な商業施設について**適当でないもの**を，次の**ア**～**エ**から1つ選び，記号で答えなさい。

ア　建物の規模も大きいが，駐車場も大きい。　　**イ**　幹線道路沿いにできることが多い。
ウ　街の中心部や駅のすぐそばなどに多くできる。　　**エ**　大規模な工場跡地にできることもある。

【3】次の表は，藤蔭高校のY先生が滋賀県大津市に出張した際，訪れた史跡などの場所とそこの説明をまとめたものである。各問いに答えなさい。

場所（史跡など）	説　明
近江大津宮錦織遺跡（おうみおおつのみやにしごりいせき） （大津市）	667年に飛鳥から近江に都を移した①中大兄皇子がここで正式に即位し，政治の改革を進めた。1974年以来の発掘調査で，大津市錦織の住宅地でその都の一部の建物跡が確認された。
天智天皇陵（てんじてんのうりょう） （京都市）	京都市山科区（やましなく）にある古墳で，御廟野（ごびょうの）古墳ともいう。宮内庁（くないちょう）により②天智天皇の陵とされる。
明治天皇陵（めいじてんのうりょう） （京都市）	京都伏見区（ふしみく）の桃山丘陵にあり，（ 伏見 ）桃山御陵（ごりょう）ともいう。昨年６月，上皇ご夫妻がこの陵を訪れ，天皇退位にともなう一連の行事が終わった。近くには，宮内庁により③桓武天皇陵とされる柏原陵（かしわばらのみささぎ）もある。
園城寺（おんじょうじ） （大津市）	７世紀に創建された寺院で，別名を三井寺（みいでら）という。④天台宗に属し，同じ宗派の（ ⑤ ）との関わりや⑥鎌倉幕府，⑦室町幕府との関係が深い。近くに琵琶湖疎水（そすい）の取水口がある。
安土城跡（あづちじょうせき） （近江八幡市）	安土城は，⑧織田信長により当時，琵琶湖に接していた安土山に建造された。大型の天守を初めて持つなど，それまでの城にない独創的なデザインだったが，⑨本能寺の変以後の混乱の中で天守などが焼失し，⑩豊臣秀吉の時代に廃城になった。ここでつちかわれた技術が⑪安土桃山時代から江戸時代初期にかけて築かれた城の手本となった。

場所（史跡など）	説　　明
琵琶湖疎水（そすい）記念館（京都市）	京都市が琵琶湖疎水の工事完成100周年を記念して，平成元年に開館した施設。琵琶湖疎水とは，琵琶湖の湖水を京都市へ流すため，⑫明治時代につくられた水路のこと。⑬西郷隆盛の長男西郷菊次郎も京都市長だった時にこの事業を推進している。
国立京都国際会館（京都市）	1966年に日本で最初の国立の会議施設として開設された。⑭1997年，ここで地球温暖化防止京都会議が開かれ，京都議定書が採択された。

問1　下線部①について，この人物が行ったこととして誤っているものを，次のア～エから１つ選び，記号で答えなさい。

ア　蘇我氏の独裁的な政治に対する不満が高まるなか，蘇我馬子をたおした。
イ　中臣鎌足や帰国した留学生などの協力を得ながら新しい政治のしくみをつくる改革を始めた。
ウ　それまで豪族が支配していた土地と人々を，公地・公民として国家が直接支配する方針を示した。
エ　はじめて「大化」という年号を使ったといわれている。

問2　下線部②について，この人物の没後に起こったあとつぎをめぐる戦いを何というか，次のア～エから１つ選び，記号で答えなさい。

ア　承久の乱　　イ　壬申の乱　　ウ　白村江の戦い　　エ　鳥羽・伏見の戦い

問3　下線部③について，この人物が行ったこととして誤っているものを，次のア～エから１つ選び，記号で答えなさい。

ア　784年に都を長岡京に移し，次いで794年に都を平安京に移した。
イ　東北地方や九州地方以外では一般の人々の兵役をやめた。
ウ　役所を整理する一方で国司に対する監督を強化した。
エ　東北地方の蝦夷に対して坂上田村麻呂を征夷大将軍として派遣し，幕府を開かせた。

問4　下線部④について，(1)・(2)の問いに答えなさい。

(1) この宗派を日本に伝えた人物を答えなさい。

(2) (1)の人物と同じ時期に真言宗を日本に伝えた人物を答えなさい。

問5　表中の(⑤)に入る比叡山にある寺院を答えなさい。

問6　下線部⑥について，この幕府と関係ないものを，次のア～エから１つ選び，記号で答えなさい。

ア　管領　　イ　執権　　ウ　守護　　エ　六波羅探題

問7　下線部⑦について，この幕府と関係ないものを，次のア～エから１つ選び，記号で答えなさい。

ア　応仁の乱　　イ　元寇　　ウ　南北朝の動乱　　エ　倭寇

問8　下線部⑧について，この人物が行ったこととして，誤っているものを，次のア～エから１つ選び，記号で答えなさい。

ア　城下には楽市・楽座の政策によって商人を招き，座や各地の関所を廃止し，商工業の発展を図った。
イ　堺などの自治都市や，自分に従わない仏教勢力には厳しい態度で臨み，屈服させた。
ウ　天皇の命令の形をとって惣無事令(停戦命令)を出し，全国統一事業を進めた。
エ　室町幕府15代将軍足利義昭を援助したが，のちに敵対するようになり，彼を京都から追放した。

問9 下線部⑨について，この出来事を起こした人物を，次の**ア**～**エ**から1つ選び，記号で答えなさい。

ア 明智光秀　**イ** 武田勝頼　**ウ** 石田三成　**エ** 羽柴秀吉

問10 下線部⑩について，この人物が行った太閤検地に関して誤っているものを，次の**ア**～**エ**から1つ選び，記号で答えなさい。

ア 全国の土地が石高という統一的な基準であらわされるようになった。
イ 武士の知行が石高で示され，武士には石高に応じた年貢を納入することが義務づけられた。
ウ 荘園領主や有力農民がそれぞれ持っていた土地の複雑な権利を否定した。
エ 検地帳に登録された農民だけに土地の所有権を認めた。

問11 下線部⑪について，次の**ア**～**オ**は安土桃山時代の桃山文化，あるいは江戸時代の元禄文化に関するものである。このうち桃山文化に関するものを2つ選び，記号で答えなさい。また，**イ**の台本を書いた人物の名前を答えなさい。

ア

「見返り美人図」

イ

人形浄瑠璃

ウ



俳句

エ

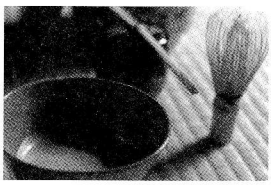

茶の湯

オ

「唐獅子図屏風」

問12 下線部⑫について，帝国議会が開設された時期を，次の**ア**～**エ**から1つ選び，記号で答えなさい。

	ア		**イ**		**ウ**		**エ**	
廃藩置県	→	国会開設の勅諭	→	内閣制度創設	→	大日本帝国憲法発布	→	日清戦争

問13 下線部⑬について，この人物と関係のあるものを，次の**ア**～**エ**から1つ選び，記号で答えなさい。

ア 岩倉使節団の一員として欧米に派遣され，欧米の進んだ政治や産業，社会の状況を直接体験した。
イ 開国の要求をこばむ朝鮮国に対して，武力により開国をせまる征韓論を政府内で主張した。
ウ 明治六年の政変後は政府の中心人物として権力を持った。
エ 内務省を設置して内務卿となり，殖産興業をはじめとする近代化政策をおし進めた。

問14 下線部⑭について，現在の国際関係では，地球温暖化など一国だけでは解決できないさまざまな問題があり，その背景として，国境を越える経済活動や情報の瞬時の移動など世界の一体化がある。このことを何というか，答えなさい。

【4】次の表は，あるクラスで各分野ごとに学習テーマを決めたものである。各問いに答えなさい。

分　野	学習テーマ
人間を尊重する①日本国憲法	憲法はどのようなものを保障しているか。
司法権の独立と②裁判	裁判にはどのようなものがあるか。
消費生活と③市場経済	④金融機関はどのような仕事をしているか。
⑤財政と政府の役割	国や⑥地方公共団体はどのような経済活動を行っているか。

問1 下線部①について，次の(1)・(2)の問いに答えなさい。

(1) 次の文は，ある新聞の記事である。次の文の(　　)に適する語句を答えなさい。

> (　　)，平和主義，基本的人権の尊重を基本原理とする日本国憲法が公布されて74年を迎えた。国民に寄り添い，生きる規範であった憲法がかつてないほど激しい改正議論に巻き込まれている。いわゆる「押し付け」憲法から脱却し，自主憲法制定を主張する政治勢力の本格台頭である。

(2) 私たちが人間らしく生きていくために，日本国憲法では自由権が保障され，a精神活動の自由，b身体の自由，c経済活動の自由が定められている。次の**ア**～**カ**はa～cのどれにあてはまるか，それぞれ2つずつ選び，記号で答えなさい。

ア 信教の自由　　**イ** 財産権の保障　　**ウ** 居住・移転・職業選択の自由
エ 法定手続きの保障　　**オ** 学問の自由　　**カ** 奴隷的拘束・苦役からの自由

問2 下線部②について，次の台本は，刑事裁判を学ぶ授業で模擬裁判を行った時のものである。各問いに答えなさい。

役　割	せ　り　ふ
[A]	それでは，(a)人に対する事件の審理を始めます。
	～　省　略　～
	[B]，起訴状を読んでください。
[B]	(起訴状を読む)
[A]	ここで，(a)人に注意しておく必要があります。(a)人には，(b)権という権利があります。答えたくない質問には答えなくても構いません。
	そこで質問しますが，先ほど[B]が読み上げた起訴状の内容は間違いないですか。
(a)人	違います。 私はやっていません。
[A]	[C]の意見はいかがですか。
[C]	(a)人が述べたとおりです。(a)人は犯人ではなく，無罪です。

(1) 空欄(a)・(b)に適する語句を漢字で答えなさい。

(2) 空欄[A]～[C]に適する語句の組み合わせとして正しいものを，次の**ア**～**カ**から1つ選び，記号で答えなさい。

ア [A] 検察官　[B] 弁護士　[C] 裁判官　　**イ** [A] 弁護士　[B] 裁判官　[C] 検察官
ウ [A] 検察官　[B] 裁判官　[C] 弁護士　　**エ** [A] 裁判官　[B] 弁護士　[C] 検察官
オ [A] 弁護士　[B] 検察官　[C] 裁判官　　**カ** [A] 裁判官　[B] 検察官　[C] 弁護士

問3 下線部③について，次の図及びグラフを見て，(1)～(4)の問いに答えなさい。

[図]

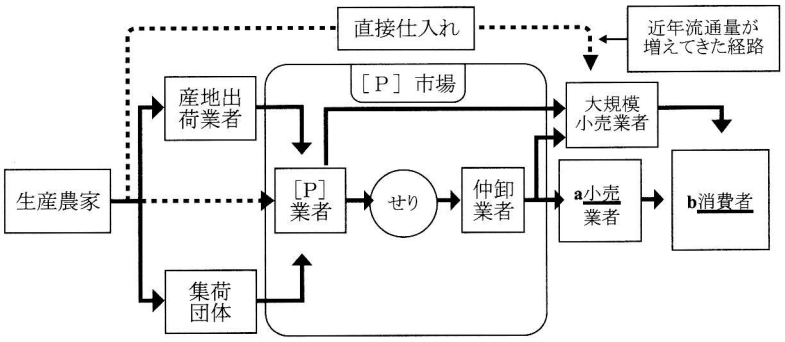

[グラフ]

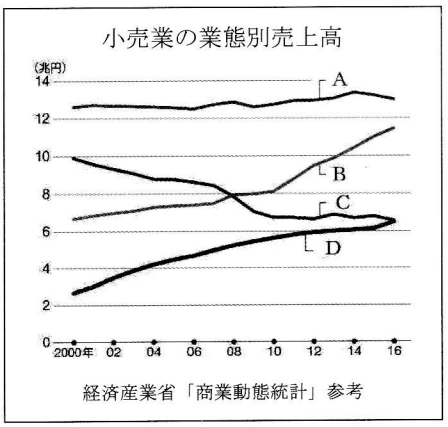

(1) 図中の空欄[P]に適する語句を答えなさい。

(2) 図中の下線部aについて，グラフは小売業の業態別売上高の変化を示したものである。グラフ中のA～Dに適するものの組み合わせとして正しいものを，次の**ア**～**カ**から1つ選び，記号で答えなさい。

ア	A コンビニエンスストア	B ドラッグストア	C 百貨店	D 食品スーパー
イ	A コンビニエンスストア	B 百貨店	C 食品スーパー	D ドラッグストア
ウ	A 百貨店	B ドラッグストア	C 食品スーパー	D コンビニエンスストア
エ	A 食品スーパー	B コンビニエンスストア	C 百貨店	D ドラッグストア
オ	A 食品スーパー	B 百貨店	C ドラッグストア	D コンビニエンスストア
カ	A 百貨店	B コンビニエンスストア	C ドラッグストア	D 食品スーパー

(3) 図中の下線部bについて，消費者庁は，消費者の権利を尊重し，自立を支援するための施策を行っている。次の**ア**～**エ**の文は，消費者の権利について説明したものである。正しいものを1つ選び，記号で答えなさい。

ア 消費者基本法により，消費者からの苦情・相談の窓口として，消費生活センターが各地に設けられている。

イ 欠陥商品によって消費者が被害を受けた場合，消費者が企業側の不注意による失敗を証明できなくても，損害賠償を求められるクーリング・オフ制度がある。

ウ アメリカのニクソン大統領は，安全を求める権利・知らされる権利・選択する権利・意見を反映させる権利の四つの権利をかかげ，諸外国の消費者行政に大きな影響を与えた。

エ 訪問販売などで商品を購入した場合，一定期間内であれば，理由にかかわりなく契約を解除できる制度として製造物責任法を定めた。

(4) 不当な価格競争をやめさせ，企業の自由競争を維持する目的で定められた法律を何というか，<u>漢字5字</u>で答えなさい。

問4 下線部④について，日本銀行はわが国の金融の中心として重要な役割を果たしている。このような銀行を何というか，答えなさい。

問5 下線部⑤について，(1)・(2)の問いに答えなさい。

(1) 不景気の時に政府が行う財政政策として適するものを，次の**ア**～**エ**から1つ選び，記号で答えなさい。

ア 財政支出を増やしたり，増税したりする。　**イ** 財政支出を増やしたり，減税したりする。

ウ 財政支出を減らしたり，増税したりする。　**エ** 財政支出を減らしたり，減税したりする。

(2) 政府の歳出のうち，最も大きな割合を占めているものを，次の**ア**～**エ**から1つ選び，記号で答えなさい。

ア 地方交付税交付金　**イ** 社会保障関係費　**ウ** 防衛関係費　**エ** 公共事業関係費

問6 下線部⑥について，(1)・(2)の問いに答えなさい。

(1) 地方議会について述べた文として最も適当なものを，次の**ア**～**エ**から1つ選び，記号で答えなさい。

ア 地方議会は，国会と同じように二院制であり，議案について慎重に審議し，行き過ぎや誤りのないようにしている。

イ 地方議会は，首長に対して不信任の議決を行うことができ，不信任の議決があった場合，首長は10日以内に議会を解散しない限り，その職を失う。

ウ 地方議会は，地域の有権者の3分の1以上の署名があれば，選挙管理委員会の勧告に従って，解散することが義務づけられている。

エ 地方議会は，首長が住民の直接選挙により選出されたあとの最初の議会において，首長を信任するかどうかを決めるための投票を行う。

(2) 地域の公共の仕事にたずさわるのは地方公共団体だけでなく，住民が自発的に，地域のために行う場合もあり，利益目的ではなく，公共の利益のために活動を行う民間団体がある。この民間団体を何というか，<u>アルファベット3字</u>で答えなさい。

令和2年度
前期入学試験

社会解答用紙

【1】

問1	問2			
→ → →	(1)		(2)	州

問3				問4					
記号		国名		Ⅱ		Ⅲ		Ⅳ	

【2】

問1	問2				問3
→ → →	(1)		(2)		

問4						問5	問6	問7
Ⅰ		Ⅱ		Ⅲ		m		

【3】

問1	問2	問3	問4				問5
			(1)		(2)		

問6	問7	問8	問9	問10	問11		
					記号		

問11		問12	問13	問14
人物				

【4】

問1								
(1)		(2)	a			b		

問1			問2					
c			(1)	a		b		(2)

問3							
(1)		(2)		(3)		(4)	

問4	問5				問6			
	(1)		(2)		(1)		(2)	

受験番号	名前

合計点	